الاسم /.....
التاريخ /.....
اليوم /.....
الترتيب

٢٥

اختبار شهر ديسمبر في الرياضيات للصف الثاني

السؤال الأول : أوجد ناتج

٥٧ + ٦٨ = ...

٧٦١ - ٢٥٤ = ...

٨ + ٣ = ٢ ٧

٢٥٣ – ١٩٢ = ...

٥

السؤال الثاني : أ) رتب تصاعدي ٩١٤ ، ٧٥٠ ، ٦٢١ ، ٨٤٧ ، ٩٩ ، ٥٠٠ ، ٣٣٢

الترتيب ..... ، ..... ، ..... ، ..... ، ..... ، ..... ، .....

ب) اشتري هادي بدله بسعر ١١٨ جنيها واشتري هدية بسعر ١٨٦ جنيها . أوجد

مجموع ما دفعه هادي = ... + ... = ... جنيها

ج) ٣ ، ١ ، ٥ كون أكبر عدد ..... كون أصغر عدد .....

د) ٦ ٤ ٥ = ... + ... + ...

٥

السؤال الثالث : أ) أكتب ستمائة وتسعة .....

ب) أكتب ٧ مئات + ٢ آحاد + ٥ عشرات .....

ج)أكتب أكبر عدد مكون من ٣ أرقام .....

د)أكتب أصغر عدد مكون من ٣ أرقام مختلفة .....

هـ) أكمل بنفس التسلسل : ٣٧٢ ، ٣٨٢ ، ....

٥

السؤال الرابع : أ) ٥ أمتار و ٢٠ سم = ... سم

ب) ٣٠٠ سم = ... م

ج) ٤٣٧ سم = ... م و ..... سم

ضع علامة > أو < أو =

القدم ..... اليارد

٣٩٦ ..... ٣٦٩

٤٥ عشرة ٤٥٠

٥

السؤال الخامس : أ) ما اسم الشكل الذي له قاعدتان دائريتان .....

ب) ما اسم الشكل الذي له قاعدة دائرية ورأس واحد .....

ج) وجه المكعب علي شكل .....

د) أكتب اسم كل شكل

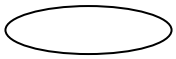



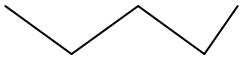

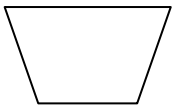

.... عدد الأضلاع .....

٥

مع أطيب تمنياتي بالنجاح والتوفيق
أ/ محمد الططاوي
٠١٠١٦٥٥٤٦٨

This PDF was created using the Sonic PDF Creator.
To remove this watermark, please license this product at www.investintech.com

This PDF was created using the Sonic PDF Creator.
To remove this watermark, please license this product at www.investintech.com